1 **Colorie** seulement les triangles.

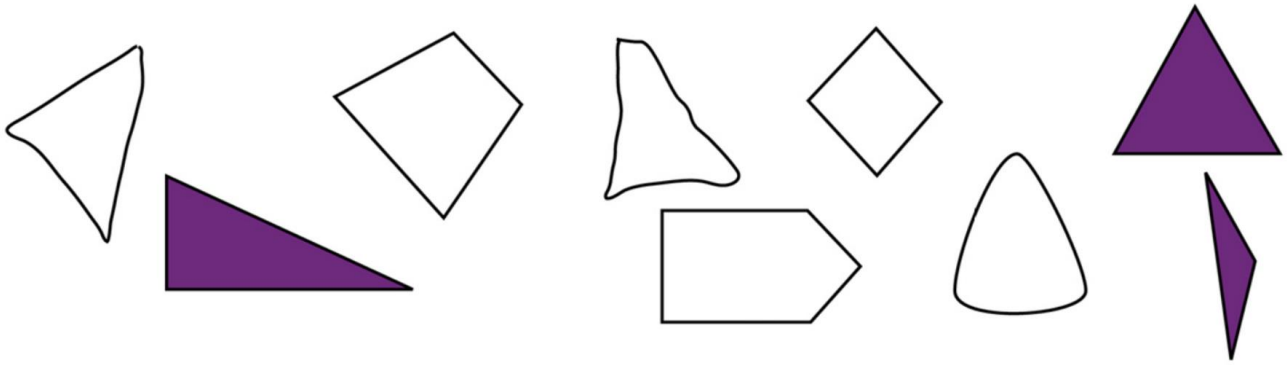

Comment les as-tu identifiés ? Car ils ont 3 côtés et 3 sommets.

2 Voici des triangles. Lesquels sont des triangles rectangles ?
Coche la bonne réponse puis **réponds** à la question.



☒ oui	☐ oui	☒ oui	☒ oui	☒ oui
☐ non	☒ non	☐ non	☐ non	☐ non

Pourquoi sont-ils des triangles rectangles ?
Car ils ont un angle droit.
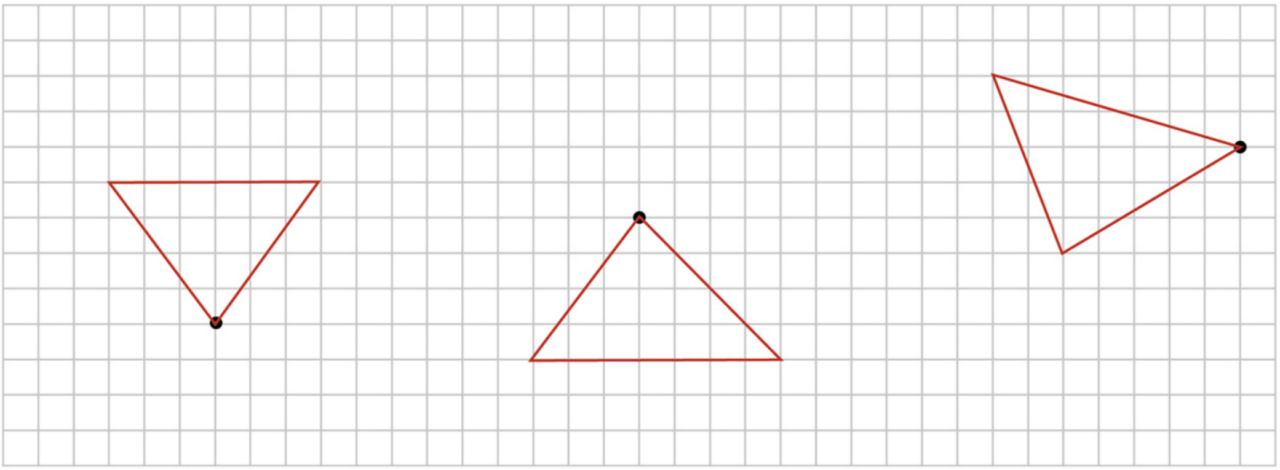
3 **Trace** trois triangles. Les points sont des sommets.